1. Самыми высокими в мировой истории темпы прироста населения около (около 20%) были

- в 60-х - 80-х годах XX в
- в начале 40-х годов XX в
- в начале 90-х годов XX в
- в начале XX века
- в конце XX века

2. Укажите абсолютный прирост населения Земли в конце XX века:

- 20-30 млн. чел.
- 60-70 млн. чел.
- 90-110 млн. чел.
- 120-130 млн. чел.

3. Главной причиной роста численности населения является:

- высокая рождаемость
- низкая смертность
- превышение рождаемости над смертностью

4. Главной причиной быстрого увеличения численности населения в последние десятилетия я

- резкое увеличение рождаемости
- снижение смертности

5. Что такое демографический взрыв:

- пугающее перенаселение Земли
- резкое снижение смертности
- резкое увеличение рождаемости при высокой смертности
- резкое снижение рождаемости при низкой смертности
- резкое увеличение прироста населения

6. Впервые термин "демографический взрыв" появился:

- в конце XIX в
- после первой мировой войны
- после второй мировой войны
- в конце XX в

7. Демографический взрыв свойственен:

- всем странам мира
- в основном развитым странам
- в основном развивающимся странам

8. Чем обусловлен уровень рождаемости:

- биологическими законами
- социальными законами
- экономическими законами
- экономическими и социальными законами
- ни одно из перечисленных выше

9. На опасность быстрого роста числа жителей земного шара обращал внимание:

- Михаил Ломоносов
- Карл Маркс
- Томас Мальтус
- Владимир Ленин

10. Страна, динамика численности населения которой изображена на графике линией (А):

- Иордания
- Венгрия
- Гаити
- Чад

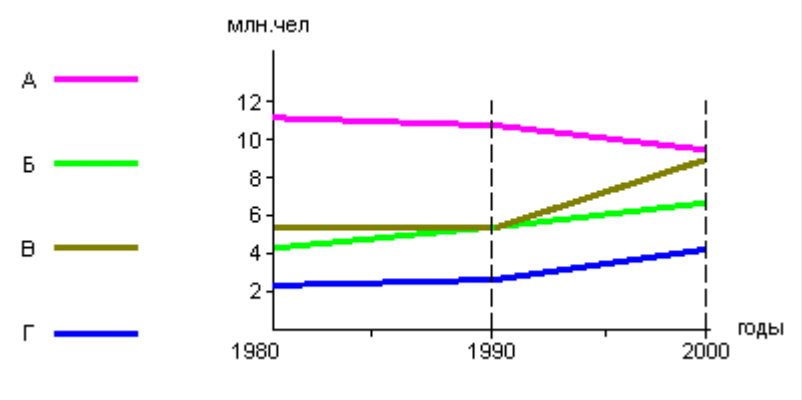

11. Наиболее высокими темпами роста числа жителей в последние десятилетия выделялась:

- Канада
- Япония
- Нигерия
- Украина

12. В большинстве высокоразвитых стран мира естественное движение характеризуется:

- естественным приростом
- естественной убылью

13. Для каких стран характерен первый тип воспроизводства населения, т.е. средние или низ рождаемости, резкое уменьшение смертности и замедление темпов роста населения:

- для стран Восточной Европы
- для стран Азии
- для стран Латинской Америки
- для стран Африки
- ни одно из перечисленных выше

14. Первый тип воспроизводства населения характерен для стран:

- Германии
- Германии и Испании
- Германии, Испании и России

15. Для каких стран характерен второй тип воспроизводства населения, т.е. высокая рождаем уменьшение смертности и высокие темпы роста населения:

- для стран Восточной Европы
- для стран Азии и Латинской Америки
- для России
- для КНР
- ни одно из перечисленных выше

16. Второй тип воспроизводства характерен для стран:

- Индии
- Индии и Индонезии
- Индии, Индонезии и Аргентины

17. Для какой страны характерны следующие показатели воспроизводства населения: рожда смертность - 21 ‰, естественный прирост - 26 ‰

- Румынии
- Монголии
- Афганистана

- Канады

18. Высокий естественный прирост населения (найдите ошибочное утверждение):

- характерен для начальной стадии демографического перехода
- отмечается в развивающихся странах
- характерен для ранних этапов развития общества (эпохи присваивающего хозяйства)
- достигается за счет опережающего снижения смертности по сравнению с рождаемостью
- характерен для большинства мусульманских стран
- связан с улучшением здравоохранения, вакцинацией

19. В первой фазе демографического перехода, т.е. высокая рождаемость и высокая смертнос страны:

- Латинской Америки
- Азии
- всей Африки
- центральной части Африки
- на данный момент таких стран нет

20. Во второй фазе демографического перехода, т.е. высокая рождаемость и средняя смертнос страны:

- Латинской Америки и Азии
- только Азии
- Африки
- центральной части Африки
- на данный момент таких стран нет

21. Какая страна не попадает под определение третьей фазы демографического перехода, т.е. рождаемость и низкая смертность:

- Япония
- Албания
- КНР
- Россия
- Украина

22. Соотношение между трудоспособной частью населения и не работающими, называется:

22. Возрастная структура населения с высокой долей пожилых людей и низкой долей детей св
странам:

- развитым
- развивающимся

- демографической нагрузкой
- экономически активным различием
- трудовым различием

23. Часть населения, которая по возрасту и состоянию здоровья способна к трудовой деятель
называется:

- трудоспособным населением
- экономически активным населением

24. Выберите страну, в которой доля детей составляет менее четверти населения, а доля пожи
- около 17%:

- Бразилия
- Мексика
- Китай
- Болгария
- Турция
- Кувейт

25. Страна, возрастной состав населения которой изображен на диаграмме:

- Алжир
- Афганистан
- Парагвай
- Дания

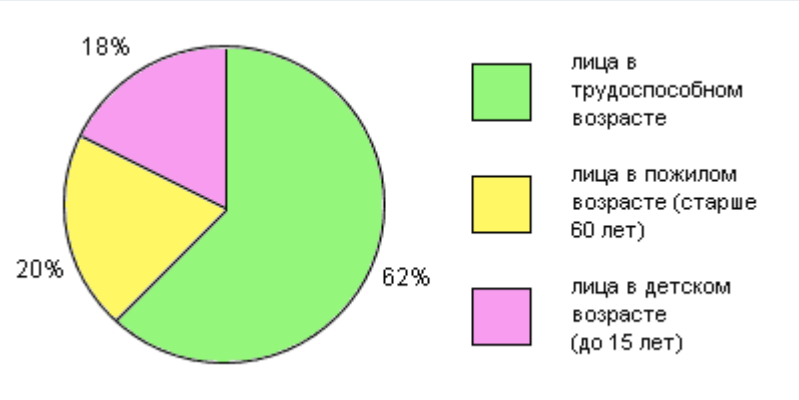

26. Страна, где доля лиц в пожилом возрасте примерно равна доле лиц в детском возрасте:

- Нигерия
- Мексика
- Непал
- Венгрия

27. Мужское население преобладает в странах:

- России и Иране
- Китае и Саудовской Аравии
- Германии и Франции
- ни в одной из перечисленных выше

28. Регион мира с преобладанием мужчин над женщинами:

- Восточная Европа
- Юго-Западная Азия
- Северная Америка
- Австралия и Океания

29.Страна, половой состав населения которой изображен на диаграмме:

- Норвегия
- Япония
- Индия
- Латвия

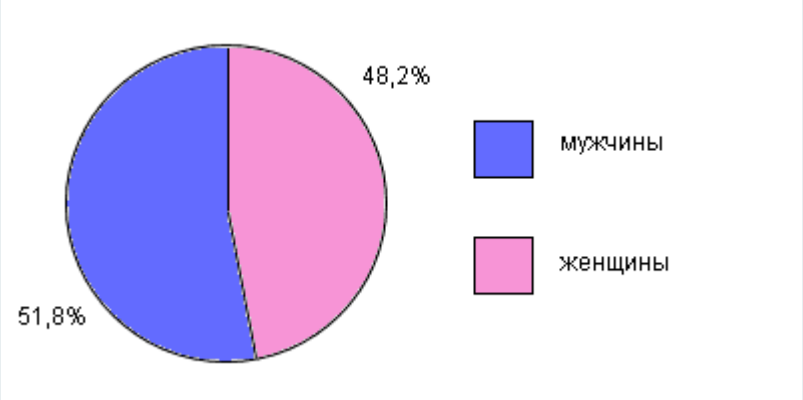

30. Выберите страну, в которой доля детей составляет около 40% населения, а доля пожилых возрастов около 6%:

- Япония Португалия
- Канада Австрия
- Мексика ФРГ

31. Китайско-тибетская семья является:

- второй по численности
- первой по численности
- третьей по численности
- обхватывающей наибольшую территорию земного шара

32. Наиболее распространенными языками мира являются (в порядке убывания количества

- китайский, английский, русский, испанский
- английский, китайский, испанский, русский
- китайский, английский, испанский, русский
- китайский, испанский, английский, русский
- китайский, испанский, русский, английский

33. Среди названных народов подчеркните коренное население Канадского Севера:

- марийцы
- индейцы
- чукчи
- алеуты
- эскимосы
- туареги
- англичане

34. Выберите пару стран, коренные народы которых говорят на языках разных языковых сем одинаковую религию; территория этих стран долгое время находилась под властью немцев, а начала XVIII века - шведов:

- Латвия, Эстония
- Белоруссия, Литва
- Эстония, Финляндия
- Эстония, Белоруссия
- Польша, Литва

- Латвия, Литва

35. В каком федеративном государстве население состоит из представителей трех рас, а госуда язык относится к индо-европейской семье:

- Югославия
- Канада
- Алжир
- США
- Нигерия
- Аргентина

36. В какой стране население говорит на языках индо-европейской семьи, исповедует ислам?

- Азербайджан
- Монголия
- Сирия
- Пакистан
- Китай
- Египет

37. Найдите единственную страну, в которой минимальны предпосылки для межрелигиозны межэтнических конфликтов:

- Великобритания
- Индия
- Турция
- Канада
- Япония
- Югославия

38. Найдите ошибку в перечне многонациональных государств:

- Индия
- Индонезия
- Афганистан
- Япония
- Филиппины

- Нигерия
- Россия

39. Какой из ниже названных языков является вторым государственным в Перу:

- французкий
- португальский
- киньяруанда
- свази
- креольский
- кечуа
- английский
- китайский
- корейский
- шведский

40. На долю монголоидов в структуре населения мира приходится (в%):

- 40
- 20
- 10
- 60

41. Большинство населения Южной Азии относится к... языковой семье:

- алтайской
- индоевропейской
- сино-тибетской
- афразийской